Repräsentation von Graphen

Einstieg: Modellierung mit Graphen

Situation 1

Modelliert werden sollen die Beziehung zwischen Personen, in diesem Beispiel festgelegt durch den Umstand, ob eine Person die Handynummer einer anderen Person kennt. In der Liste sieht man, wer welche Nummern gespeichert hat.

Kennt Handynummer:

Adriana kennt die Nummer von Clara und Betül
Betül kennt die Nummer von Clara und Dominik
Clara kennt die Nummer von Adriana
Dominik kenn die Nummer von Betül und Clara

Situation 2 (Traveling Salesman Problem)

Ein Geschäftsmann aus Frankfurt muss Kunden in Berlin, Nürnberg und München beraten. Er möchte seine Rundreise so planen, dass er jeden Ort nur genau einmal besucht und die Gesamtfahrstrecke dabei möglichst klein bleibt. Dazu hat er die Entfernungen (in km) in einer Tabelle aufgeschrieben:

	München	Nürnberg	Frankfurt	Berlin
München	0	170	400	590
Nürnberg	170	0	230	440
Frankfurt	400	230	0	550
Berlin	590	440	550	0

Aufgaben

(A1)

Beide Situationen sollen als Graph modelliert werden.

- Entscheide für beide Situationen, ob es sich um einen gerichteten oder ungerichteten Graphen handelt.
- Entscheide für beiden Situationen, ob es sich um einen gewichteten oder einen ungewichteten Graphen handelt.

Lösung

- Situation 1: gerichteter, ungewichteter Graph
- Situation 2: ungerichteter, gewichteter Graph

(A2)

Zeichne die Graphen für beide Situationen.

Lösung:

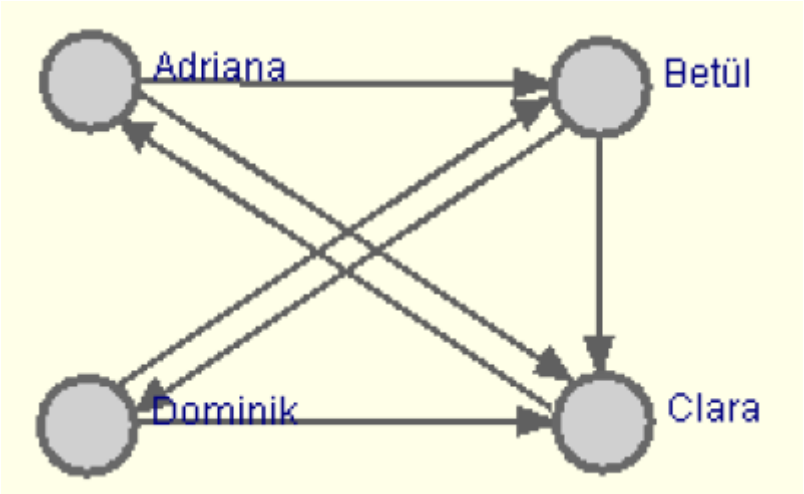

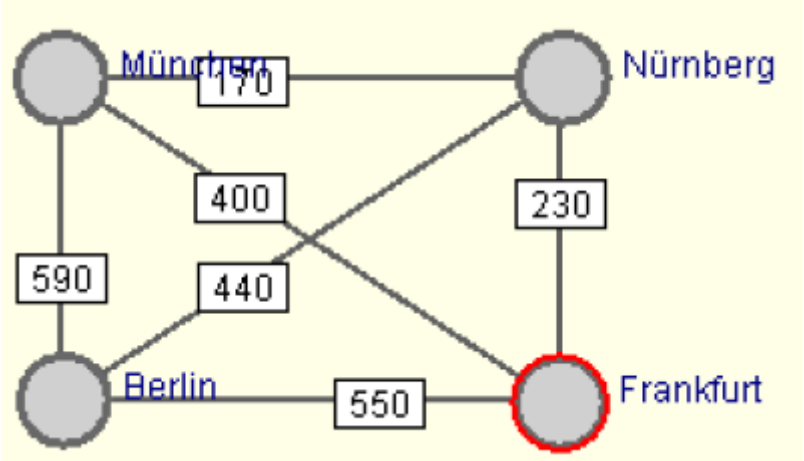

Begriffe

Graphen können auf zwei Arten so dargestellt werden, dass sie von Rechnersystemen effizient verarbeitet werden können.

1. Als **Adjazenzliste**
2. Als **Adjazenzmatrix**

Adjazenz bedeutet in diesem Zusammenhang "*Nachbarschaft*".

Wenn zwei Knoten über eine Kante miteinander verbunden sind, heißen diese Nachbarknoten, sie sind benachbart oder auch "adjazent".

Erarbeitung

- (3A) Gruppe A: Bearbeite bitte diese Seite: Adjazenzmatrix

- (3B) Gruppe B:Bearbeite bitte diese Seite: Adjazenzliste

Übungen

(A4)

Stelle folgende als Adjazenzmatrix oder Adjazenzliste gegebenen Graphen dar.

a) $\begin{pmatrix} 0 & 1 & 1 & 0 & 1 \\ 1 & 0 & 0 & 0 & 1 \\ 1 & 1 & 0 & 0 & 0 \\ 0 & 1 & 0 & 0 & 1 \\ 1 & 0 & 1 & 1 & 0 \end{pmatrix}$ b) $\begin{pmatrix} 0 & 4 & 1 & 0 & 1 \\ 4 & 0 & 2 & 0 & 0 \\ 1 & 2 & 0 & 0 & 5 \\ 0 & 0 & 0 & 0 & 1 \\ 1 & 0 & 5 & 1 & 0 \end{pmatrix}$ c)

Knoten	Kanten
0	2; 4
1	2; 3; 4
2	0; 1; 4
3	1
4	0; 1; 2

d)

Knoten	Kanten
0	(1; 12); (2; 4)
1	(3; 41)
2	(0; 8); (4; 2)
3	(0; 12)
4	(0; 3); (2; 5)

Lösung

a)

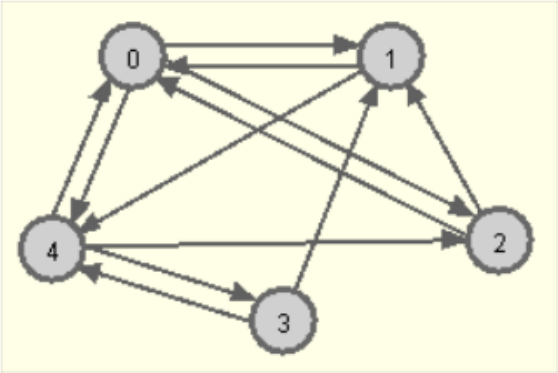

b)

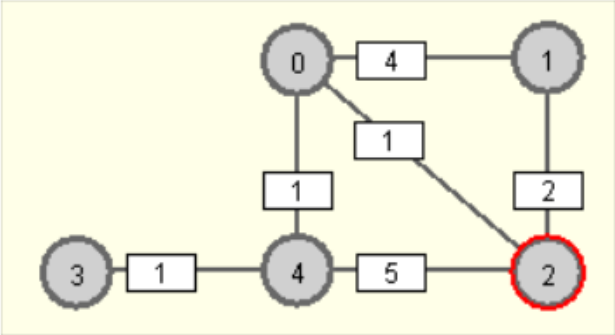

c)

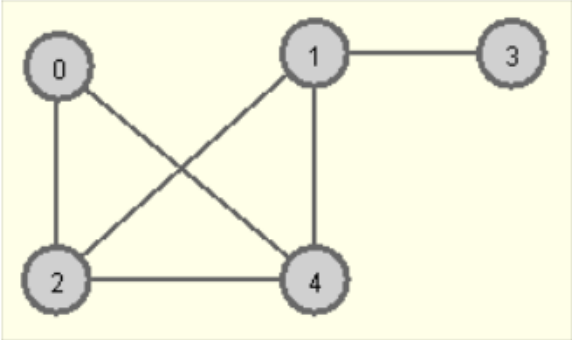

d)

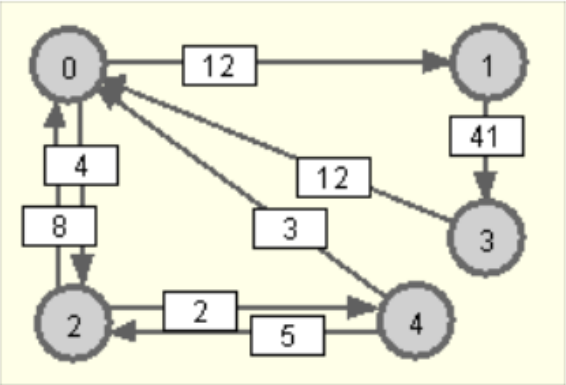

(A5)

Betrachte die Dateien graph1.csv und graph2.csv im Unterordner beispielgraphen/05_repraesentation des Graphen-Testers in einem Texteditor. Untersuche, wie die Graphen hier gespeichert sind.

From:
https://www.info-bw.de/ -

Permanent link:
https://www.info-bw.de/faecher:informatik:oberstufe:graphen:zpg:repraesentation:start?rev=1669838426

Last update: **30.11.2022 20:00**